CONSÓRCIO INTERMUNICIPAL MULTISSETORIAL DO MÉDIO RIO PIRACICABA – CONSMEPI

PROCESSO SELETIVO 02/2026

CADERNO DE QUESTÕES

CARGO: TÉCNICO EM EDIFICAÇÕES

INSTRUÇÕES AO CANDIDATO

1. A duração total da prova é de 3 (três) horas, já incluído o tempo destinado ao preenchimento da Folha de Respostas.
2. O candidato somente poderá iniciar a prova ou folhear o caderno de questões após autorização do fiscal de sala.
3. Antes de iniciar, verifique se o seu caderno contém 30 (trinta) questões objetivas, numeradas corretamente, e se todas as páginas estão completas e legíveis.
4. Cada questão apresenta quatro alternativas (A), (B), (C) e (D). Marque somente uma alternativa na Folha de Respostas.
5. Utilize caneta esferográfica de tinta azul ou preta. Rasuras, marcações múltiplas ou o uso de lápis implicam anulação da questão.
6. A Folha de Respostas é de inteira responsabilidade do candidato, não sendo fornecida substituição em caso de erro, rasura ou marcação indevida.
7. Confira seus dados pessoais na Folha de Respostas antes de iniciar a prova.
8. É proibido consultar qualquer material, comunicar-se com outros candidatos ou utilizar equipamentos eletrônicos, tais como celulares, fones de ouvido, relógios digitais, calculadoras, entre outros.
9. O candidato somente poderá retirar-se do local de aplicação da prova depois de transcorrido o tempo de 60 minutos da duração da prova, levando consigo o caderno de provas.
10. Mantenha silêncio e obedeça às orientações do fiscal de sala. O descumprimento destas normas poderá acarretar eliminação do certame.

BOA PROVA!

LÍNGUA PORTUGUESA

TEXTO I

"Ao verme que primeiro roeu as frias carnes do meu cadáver dedico como saudosa lembrança estas memórias póstumas. Algum tempo hesitei se devia abrir estas memórias pelo princípio ou pelo fim, isto é, se poria em primeiro lugar o meu nascimento ou a minha morte. Suposto o uso vulgar seja começar pelo nascimento, duas considerações me levaram a adotar diferente método: a primeira é que eu não sou propriamente um autor defunto, mas um defunto autor, para quem a campa foi outro berço; a segunda é que o escrito ficaria assim mais galante e mais novo."

(ASSIS, Machado de. Memórias Póstumas de Brás Cubas. Rio de Janeiro, 1881. Domínio público.)

QUESTÃO 1

Nos trechos do texto I, a ideia central é que:

A) a obra se apresenta como memórias de um defunto, que inverte a ordem convencional da narrativa ao começar pelo fim.

B) o narrador hesita porque teme revelar segredos de família.

C) a obra registra com fidelidade documental a história do Brasil do século XIX.

D) o narrador se arrepende amargamente de ter escrito o livro.

QUESTÃO 2

Com base no texto I, é correto inferir que:

A) o narrador já está morto no momento em que escreve as memórias.

B) o narrador escreveu a obra no leito de morte, ainda em vida.

C) a obra foi organizada e publicada por terceiros, após a morte do autor.

D) o narrador dedicou a obra a um amigo de infância.

QUESTÃO 3

No texto I, o emprego de palavras e expressões ultrapassa, em vários momentos, o sentido literal. Assinale a alternativa cuja explicação de sentido não está correta.

A) "as frias carnes do meu cadáver" refere-se ao próprio corpo morto do narrador.

B) "um defunto autor" inverte a ordem das palavras para ironizar a condição do narrador: um morto que escreve.

C) "saudosa lembrança" mantém o sentido denotativo de saudade, pois o narrador recorda com nostalgia a convivência que teve com o verme em vida.

D) "a campa foi outro berço" emprega "berço" em sentido figurado, como ponto de partida de uma nova existência.

QUESTÃO 4

A respeito dos recursos linguísticos dos textos I e II, analise as assertivas a seguir.

I. Em "estas memórias póstumas", o pronome demonstrativo "estas" indica proximidade, situando o livro no momento da enunciação.

II. Em "isto é, se poria em primeiro lugar o meu nascimento ou a minha morte", a locução "isto é" introduz explicação que retoma e esclarece o que foi dito antes.

III. Em "Não tive filhos, não transmiti a nenhuma criatura o legado da nossa miséria", a repetição do advérbio "não" no início das duas orações cria efeito de reforço da negação.

IV. Em "abrir estas memórias pelo princípio ou pelo fim", a conjunção "ou" introduz oração coordenada sindética adversativa.

Está correta a informação contida em:

A) I e II, apenas.

B) I, II e III, apenas.

C) II e IV, apenas.

D) III e IV, apenas.

QUESTÃO 5

Considerando os trechos do Texto I, assinale a alternativa que descreve corretamente características da narrativa apresentada.

A) a exposição de dados estatísticos para comprovar hipóteses científicas.

B) a narração ficcional em primeira pessoa, com digressões e ironia.

C) o relato jornalístico imparcial de fatos recentes do cotidiano urbano.

D) a instrução sequencial de etapas para a execução de uma tarefa prática.

TEXTO II

"Não tive filhos, não transmiti a nenhuma criatura o legado da nossa miséria."

(ASSIS, Machado de. Memórias Póstumas de Brás Cubas. Rio de Janeiro, 1881. Domínio público. Trecho final da obra.)

QUESTÃO 6

No texto II, a frase que encerra a obra expressa:

A) um encerramento irônico, em que o narrador apresenta a ausência de filhos como uma forma de não ter transmitido a outros o "legado da nossa miséria".

B) o lamento sincero e melancólico do narrador pela ausência de descendência.

C) a referência à pobreza financeira do narrador, que nada pôde deixar em herança.

D) a celebração, pelo narrador, da alegria de ter deixado herdeiros.

QUESTÃO 7

Analise as assertivas a seguir, referentes à análise linguística dos textos I e II.

I. Em "dedico como saudosa lembrança estas memórias póstumas", o verbo "dedicar" é transitivo direto e indireto, e "estas memórias póstumas" exerce a função de objeto direto.

II. Em "Suposto o uso vulgar seja começar pelo nascimento", o verbo "seja" está no presente do subjuntivo.

III. Em "Não tive filhos, não transmiti a nenhuma criatura o legado da nossa miséria", as orações estão coordenadas assindeticamente.

IV. Em "se poria em primeiro lugar o meu nascimento ou a minha morte", o verbo "poria" está no futuro do presente do indicativo.

V. Em "hesitei se devia abrir estas memórias", o verbo "devia" está no pretérito imperfeito do indicativo, em correlação com o pretérito perfeito "hesitei".

Estão corretas apenas as assertivas:

A) I e II.
B) I, II e III.
C) I, III e V.
D) I, II, III e V.

QUESTÃO 8

Nos textos I e II, os recursos expressivos contribuem para a construção dos sentidos.

Assinale a alternativa cuja identificação da figura de linguagem está incorreta:

A) Em "eu não sou propriamente um autor defunto, mas um defunto autor", ocorre um quiasmo, caracterizado pela disposição invertida das palavras "autor" e "defunto".

B) Em "o meu nascimento ou a minha morte", ocorre uma antítese, pela aproximação de palavras que expressam ideias opostas.

C) Em "Não tive filhos, não transmiti a nenhuma criatura o legado da nossa miséria", ocorre um eufemismo, pois a declaração suaviza a referência à morte do narrador.

D) Em "a campa foi outro berço", ocorre uma metáfora, pois a sepultura é apresentada como um berço, associado ao início da existência do narrador como escritor depois de morto.

QUESTÃO 9

Analise as assertivas a seguir, referentes à reescrita e à pontuação de trechos dos textos I e II.

I. A reescrita de "Não tive filhos, não transmiti a nenhuma criatura o legado da nossa miséria" como "Não tive filhos e não transmiti a nenhuma criatura o legado da nossa miséria" mantém as duas negações expressas no original.

II. Em "Algum tempo hesitei se devia abrir estas memórias pelo princípio ou pelo fim, isto é, se poria em primeiro lugar o meu nascimento ou a minha morte", as vírgulas que delimitam "isto é" assinalam o emprego de uma expressão explicativa.

III. A substituição de "adotar" por "abandonar", em "duas considerações me levaram a adotar diferente método", preserva o sentido original do trecho.

IV. A reescrita da dedicatória como "Dedico estas memórias póstumas, como saudosa lembrança, ao verme que primeiro roeu as frias carnes do meu cadáver" preserva o destinatário da dedicatória e mantém a correção gramatical.

Estão corretas apenas as assertivas:

A) I e II.
B) I e III.
C) II, III e IV.
D) I, II e IV.

QUESTÃO 10

No que se refere à redação oficial e à comunicação administrativa, assinale a alternativa correta.

A) A formalidade exige o emprego de vocabulário rebuscado e de construções sintáticas complexas, ainda que dificultem a compreensão da mensagem.

B) A concisão autoriza a exclusão de informações necessárias à compreensão do assunto, desde que resulte em um documento mais curto.

C) A impessoalidade exige que todos os verbos sejam empregados na terceira pessoa, sendo incompatível com formas como "informo" e "solicitamos".

D) A impessoalidade exige que a comunicação trate do assunto em caráter institucional, sem impressões pessoais do redator, e não impede o emprego da primeira pessoa gramatical.

MATEMÁTICA E RACIOCÍNIO LÓGICO

QUESTÃO 11

Um reservatório tem a forma de um prisma reto, com base retangular e profundidade interna de 0,60 m. Sua base é delimitada por uma faixa de largura uniforme x, situada inteiramente dentro de um retângulo externo cujos lados estão na razão 4 : 3 e cuja diagonal mede 25 m. A figura mostra a vista superior. O reservatório, inicialmente vazio, é preenchido até sua capacidade total, em 150 minutos, por três bombas idênticas. Cada bomba tem vazão nominal de 250 L/min e opera, durante todo o enchimento, com vazão efetiva igual a 80% da nominal. Não há perdas de água.

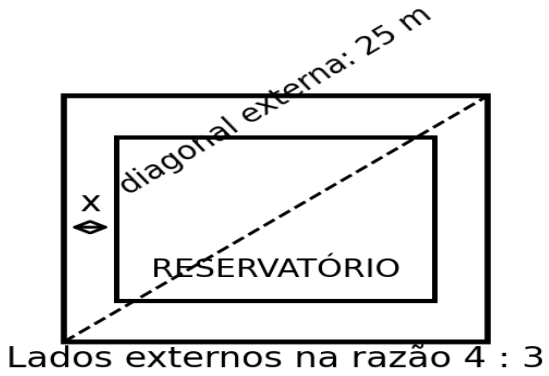

Assinale a alternativa correta para a largura x da faixa:

A) 1,25 m.
B) 5,00 m.
C) 2,50 m.
D) 7,50 m.

QUESTÃO 12

Um capital C foi aplicado à taxa de 10% ao mês, em regime de juros compostos. Ao final do segundo mês, imediatamente após o crédito dos juros desse mês, foram retirados R$ 2.100,00. O saldo restante continuou aplicado à mesma taxa, sem outras movimentações. Ao final do terceiro mês, após o crédito dos juros, o saldo era de R$ 11.000,00. A linha do tempo representa essas operações.

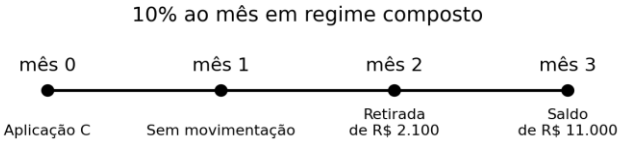

Julgue as assertivas como verdadeiras (V) ou falsas (F).

I. O capital inicial era de R$ 10.000,00.

II. A soma dos juros creditados nos três meses foi de R$ 3.100,00.

III. Os juros creditados no terceiro mês foram de R$ 1.210,00.

Assinale a alternativa correta quanto à sequência I, II e III:

A) V - V - F.
B) V - F - F.
C) F - V - F.
D) V - V - V.

QUESTÃO 13

Um grupo de 60 servidores foi classificado segundo a participação em duas capacitações, A e B. Os números da figura indicam as quantidades de servidores em cada região: apenas A, ambas, apenas B e nenhuma. Escolhem-se dois servidores distintos, ao acaso, de modo que todos os pares não ordenados tenham a mesma probabilidade de seleção. Considere o evento em que os dois escolhidos participaram, cada um, de pelo menos uma das capacitações e, considerando a dupla em conjunto, há pelo menos um participante de A e pelo menos um participante de B. Um mesmo servidor pode satisfazer as duas últimas exigências se tiver participado de ambas as capacitações.

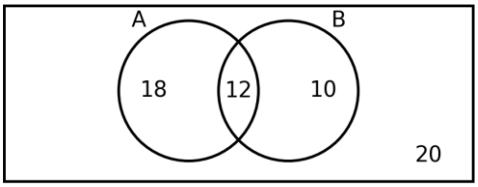

Assinale a alternativa correta para a probabilidade desse evento:

A) 26/59.
B) 97/295.
C) 47/295.
D) 29/118.

QUESTÃO 14

O gráfico representa uma função quadrática f, definida para todo x real, e informa exatamente os pontos (0, 0), (2, 12), (6, 12) e (8, 0).

Analise as assertivas:

I. O valor máximo de f é 16.

II. O conjunto dos números reais x para os quais $f(x) \geq 12$ é o intervalo fechado [2, 6].

III. Existem exatamente três números inteiros x para os quais $f(x) > 15$.

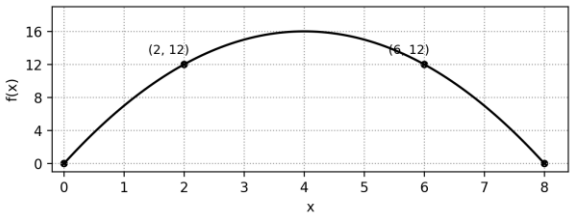

Assinale a alternativa correta:

A) Apenas I é verdadeira.

B) Apenas II e III são verdadeiras.

C) I, II e III são verdadeiras.

D) Apenas I e II são verdadeiras.

QUESTÃO 15

Cinco equipes, A, B, C, D e E, serão atendidas uma única vez, em cinco posições consecutivas. Uma ordem é admissível se, e somente se, atende simultaneamente a todas as regras abaixo.

• A é atendida antes de C.

• B é atendida imediatamente depois de D.

• E não ocupa a primeira nem a última posição.

• Exatamente uma das duas proposições seguintes é verdadeira: "C é atendida antes de D"; "E é atendida antes de C".

A figura representa as cinco posições disponíveis.

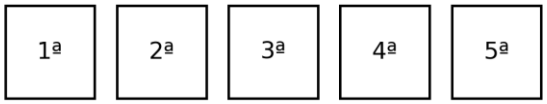

Cada posição recebe exatamente uma das equipes A, B, C, D e E.

Assinale a alternativa correta para o número de ordens admissíveis:

A) 4.

B) 6.

C) 8.

D) 5.

INFORMÁTICA

QUESTÃO 16

Um funcionário utiliza um computador com Windows 11 para elaborar documentos. Durante o trabalho, conecta um teclado novo e instala um programa de edição de textos.

Considerando os conceitos básicos de informática, assinale a alternativa correta:

A) O teclado é hardware, enquanto o editor de textos e o Windows 11 são softwares.

B) O teclado e o Windows 11 são hardwares, enquanto o editor de textos é software.

C) O teclado é software, pois envia informações ao computador, enquanto o Windows 11 é hardware.

D) O editor de textos é hardware quando instalado no computador e software quando utilizado pela internet.

QUESTÃO 17

Um servidor precisa transferir um arquivo da pasta Pendentes para a pasta Concluídos, ambas armazenadas no disco local do computador. Ele deseja que, ao final, o arquivo esteja apenas na pasta de destino.

Considerando o Explorador de Arquivos do Windows 10 e do Windows 11, assinale a alternativa correta:

A) Selecionar o arquivo, executar Copiar e, na pasta Concluídos, executar Colar**.**

B) Selecionar o arquivo, executar Renomear e substituir seu nome por Concluídos.

C) Selecionar o arquivo, executar Recortar e, na pasta Concluídos, executar Colar**.**

D) Selecionar o arquivo, executar Criar atalho e colocar o atalho na pasta Concluídos.

QUESTÃO 18

Uma equipe utiliza o Microsoft Office para elaborar relatórios, controlar despesas e apresentar resultados em reuniões.

Analise as assertivas:

I. No Word, é possível inserir uma tabela em um documento para organizar informações em linhas e colunas.

II. No Excel, a fórmula = SOMA (B2:B4) soma os valores numéricos das células B2, B3 e B4.

III. No PowerPoint, a aplicação de uma transição a um slide substitui a necessidade de salvar o arquivo da apresentação.

Assinale a alternativa correta:

A) Apenas I está correta.

B) Apenas II e III estão corretas.

C) I, II e III estão corretas.

D) Apenas I e II estão corretas.

CONHECIMENTOS ESPECÍFICOS

QUESTÃO 19

Uma funcionária recebeu um arquivo por correio eletrônico e pretende disponibilizá-lo em uma pasta compartilhada na rede local do setor.

Julgue as afirmações como verdadeiras (V) ou falsas (F).

( ) Salvar o anexo recebido permite armazenar uma cópia do arquivo em uma pasta escolhida pela funcionária.

( ) Colocar o arquivo em uma pasta compartilhada concede automaticamente permissão de edição a todos os usuários da rede, independentemente das configurações de acesso.

( ) Computadores conectados a uma rede local podem compartilhar arquivos entre si mesmo sem acesso à internet, desde que a rede e as permissões estejam configuradas para isso.

Assinale a alternativa correta, que apresenta a sequência de cima para baixo.

A) V – V – F.
B) V – F – V.
C) F – V – V.
D) V – F – F.

QUESTÃO 20

Um funcionário recebeu um e-mail que solicita sua senha e ameaça bloquear sua conta caso ele não acesse imediatamente um link. O computador utilizado possui antivírus atualizado.

Considerando essa situação e as boas práticas de segurança da informação, assinale a alternativa incorreta:

A) O antivírus atualizado torna seguro informar a senha na página indicada, pois impede que terceiros utilizem as credenciais fornecidas.
B) A urgência da mensagem e a solicitação de senha por um link são sinais que justificam suspeitar de uma tentativa de phishing.
C) A solicitação deve ser verificada por um canal institucional conhecido, sem depender do link apresentado na mensagem.
D) Manter cópias de segurança dos arquivos importantes contribui para sua recuperação em caso de perda, mas não torna seguro fornecer a senha no link recebido.

QUESTÃO 21

No levantamento de uma edificação térrea, foram identificados três ambientes consecutivos, dispostos ao longo de um mesmo alinhamento horizontal. A distância entre as faces externas das duas paredes das extremidades é de 8,42 m. Nesse alinhamento, existem duas paredes externas, cada uma com espessura acabada de 0,20 m, duas divisórias internas, cada uma com espessura acabada de 0,15 m, o primeiro ambiente apresenta largura livre acabada de 2,40 m, e o segundo, de 2,80 m. Não existem pilares, ressaltos ou outros elementos interferindo nessa cadeia de medidas. Todas as dimensões foram tomadas na mesma seção horizontal.

Assinale a alternativa correta quanto à largura livre acabada do terceiro ambiente:

A) 2,82 m.
B) 2,52 m.
C) 2,92 m.
D) 2,22 m.

QUESTÃO 22

O detalhamento de uma escada apresenta desnível de 3,06 m entre os pisos acabados de dois pavimentos. A escada possui dois lances iguais, separados por um patamar intermediário, totalizando 18 espelhos de mesma altura.

Cada lance possui nove espelhos e oito pisos de degraus, porque sua última elevação alcança diretamente o patamar ou o pavimento de chegada. A profundidade horizontal de cada piso é de 0,29 m.

Considere exclusivamente a conferência geométrica descrita, sem incluir o comprimento do patamar no desenvolvimento horizontal dos lances.

Assinale a alternativa correta:

A) Cada espelho mede 0,17 m, e cada lance apresenta desenvolvimento horizontal de 2,61 m.
B) Cada espelho mede 0,18 m, e cada lance apresenta desenvolvimento horizontal de 2,32 m.
C) Cada espelho mede 0,17 m, e a soma dos desenvolvimentos horizontais dos dois lances é de 5,22 m.
D) Cada espelho mede 0,17 m, e cada lance apresenta desenvolvimento horizontal de 2,32 m.

QUESTÃO 23

Uma ficha de produção estabelece, para determinada mistura, o emprego de 780 kg de areia seca e 180 kg de água total. A areia

disponível apresenta umidade de 6%, expressa pela relação entre a massa de água e a massa seca da areia.
Para este exercício, considere que toda a água presente na areia contribui para a água total da mistura, sem absorção ou outras fontes de água. O ajuste deve preservar a massa seca de areia e a quantidade total de água previstas.
Assinale a alternativa correta quanto à massa de areia úmida a pesar e à massa de água a acrescentar:
A) 780,00 kg de areia úmida e 133,20 kg de água.
B) 826,80 kg de areia úmida e 180,00 kg de água.
C) 733,20 kg de areia úmida e 226,80 kg de água.
D) 826,80 kg de areia úmida e 133,20 kg de água.

QUESTÃO 24

A relação de corte de uma armadura exige dez peças retilíneas de 3,20 m e dez peças retilíneas de 2,40 m, todas de mesmo diâmetro e tipo de aço. Os comprimentos informados já são os comprimentos finais de corte.
O fornecedor disponibiliza barras de 12,00 m. Não são permitidas emendas, não existem sobras anteriores disponíveis e, para este problema, a perda de comprimento produzida pelo corte é desprezível.
Assinale a alternativa correta quanto ao menor número de barras comerciais necessário e à sobra total resultante:
A) Cinco barras, com sobra total de 4,00 m.
B) Cinco barras, com sobra total de 8,00 m.
C) Seis barras, com sobra total de 16,00 m.
D) Quatro barras, com sobra total de 8,00 m.

QUESTÃO 25

Para planejar a produção de 7,20 m³ de argamassa, o Técnico em Edificações recebeu os seguintes dados operacionais:

- **Produção útil por ciclo: 0,15 m³.**
- **Duração de cada ciclo: oito minutos.**
- **Fator de utilização: 80% do tempo total disponível.**
- **Equipe: um operador e um ajudante.**
- **Custo horário do operador: R$ 28,00.**
- **Custo horário do ajudante: R$ 20,00.**
- **Custo horário do equipamento: R$ 30,00.**

O ciclo inclui carregamento, mistura e descarga. O fator de utilização já contempla as demais interrupções. Todos os custos horários incidem durante o tempo total da operação, inclusive nas interrupções. Desconsidere o custo dos materiais e qualquer outro custo.
Assinale a alternativa correta:
A) Serão necessárias 6,40 horas, com custo de R$ 499,20.
B) Serão necessárias 8,00 horas, com custo de R$ 499,20.
C) Serão necessárias 8,00 horas, com custo de R$ 624,00.
D) Serão necessárias 10,00 horas, com custo de R$ 780,00.

QUESTÃO 26

O plano de controle de um serviço estabelece, especificamente para este exercício, dois critérios simultâneos de aceitação de um conjunto de cinco resultados de ensaio:

- **Média aritmética igual ou superior a 1,80 MPa.**
- **Nenhum resultado individual inferior a 1,50 MPa.**

Os resultados obtidos foram: 1,40 MPa; 1,70 MPa; 2,20 MPa; 1,80 MPa; e 1,90 MPa.
O plano não autoriza descartar resultados sem investigação fundamentada nem substituir automaticamente o menor valor por uma nova medição.
Assinale a alternativa correta:
A) O conjunto atende aos critérios, pois sua média é de 1,80 MPa e o maior resultado compensa o menor.
B) O conjunto não atende aos critérios, pois, embora a média seja de 1,80 MPa, existe resultado individual inferior a 1,50 MPa.
C) O conjunto atende aos critérios se o resultado de 1,40 MPa for excluído, pois todo valor abaixo do limite deve ser tratado como erro de ensaio.
D) O conjunto não atende aos critérios porque sua média é de 1,70 MPa, embora todos os resultados individuais sejam aceitáveis.

QUESTÃO 27

O detalhe executivo de um revestimento cerâmico prevê uma junta de movimentação, com material de preenchimento deformável especificado em projeto. Durante a execução, a equipe propôs preencher essa junta com a mesma argamassa rígida utilizada nas juntas de assentamento.
Julgue as afirmações como verdadeiras (V) ou falsas (F).
( ) A conferência deve distinguir a função da junta de movimentação daquela desempenhada pelas juntas entre as peças cerâmicas.
( ) A igualdade de cor entre o material previsto e a argamassa proposta demonstra equivalência técnica para a substituição.

( ) A maior rigidez do preenchimento aumenta necessariamente a capacidade da junta de acomodar os deslocamentos previstos.
( ) A verificação deve abranger a geometria da junta e a compatibilidade do material aplicado com a função indicada no detalhe.
Assinale a alternativa que apresenta a sequência correta, considerando as afirmações na ordem apresentada:
A) V – F – F – V.
B) V – V – F – F.
C) F – F – V – V.
D) F – V – F – V.

QUESTÃO 28
Na preparação de uma concretagem, o Técnico em Edificações identificou que o projeto de instalações indicava a passagem de uma tubulação por uma região de viga na qual o projeto estrutural não apresentava abertura. As duas pranchas estavam identificadas como revisões vigentes de suas respectivas disciplinas.
Analise as assertivas:
I. A diferença deve ser tratada como uma interferência entre projetos, com registro da localização e encaminhamento aos responsáveis pelas disciplinas envolvidas.
II. A prancha com data mais recente autoriza, por si só, a execução da passagem, mesmo que pertença a outra disciplina e não contenha aprovação da alteração estrutural.
III. A abertura pode ser definida pela equipe de execução desde que a tubulação seja instalada antes da concretagem, evitando perfuração posterior.
IV. A solução aprovada deve ser incorporada aos documentos de execução pertinentes e comunicada à equipe antes da realização do trecho afetado.
Assinale a alternativa correta:
A) Apenas as assertivas I e II estão corretas.
B) Apenas as assertivas II e III estão corretas.
C) Apenas as assertivas I, III e IV estão corretas.
D) Apenas as assertivas I e IV estão corretas.

QUESTÃO 29
Uma equipe executa acabamento interno utilizando andaime simplesmente apoiado sobre rodízios. Para avançar até o trecho seguinte, propõe deslocar o conjunto com um trabalhador sobre a plataforma, mantendo ferramentas leves junto a ele.
Considerando a segurança do trabalho e as disposições da NR-18, assinale a alternativa incorreta:
A) A superfície de utilização deve ser horizontal e plana, permitindo a movimentação segura do andaime.
B) Os rodízios devem possuir travas que evitem deslocamentos acidentais durante a utilização.
C) O deslocamento com trabalhador sobre a plataforma é permitido quando realizado lentamente, desde que não seja ultrapassada a capacidade de carga.
D) A superfície de apoio deve ser capaz de resistir aos esforços solicitantes e às cargas transmitidas.

QUESTÃO 30
Um trecho de instalação predial será embutido e ficará inacessível após o fechamento da parede. O procedimento de execução exige conferência do traçado, verificação das conexões e realização de ensaio antes do fechamento.
No final do turno, o encarregado solicita a liberação da parede porque o trecho está visualmente alinhado e o revestimento precisa começar na manhã seguinte. O ensaio ainda não foi realizado.
Assinale a alternativa correta:
A) Liberar o fechamento e substituir o ensaio por fotografias, desde que sejam registradas todas as conexões aparentes.
B) Condicionar o fechamento ao cumprimento das verificações e do ensaio previstos, registrando seus resultados e a identificação do trecho.
C) Liberar o fechamento e transferir o ensaio para a entrega da edificação, pois a instalação permanecerá sujeita à garantia.
D) Autorizar apenas o revestimento de uma face da parede, considerando essa providência suficiente para dispensar as verificações pendentes.